Unidades cuadradas

Secuencia 27

1 Obtén el área total de cada figura y el área de su superficie coloreada. Considera (m^2) como la unidad de medida.

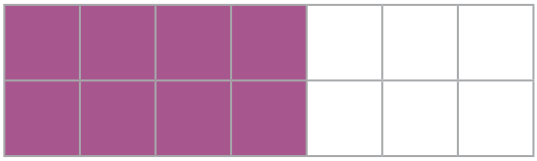

Superficie total: _____
Superficie con color: _____

Superficie total: _____
Superficie con color: _____

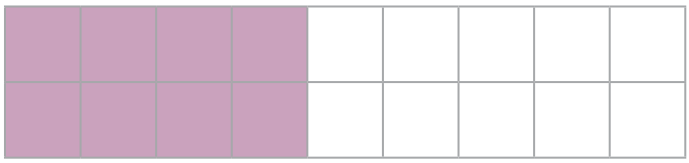

Superficie total: _____
Superficie con color: _____



Superficie total: _____
Superficie con color: _____

2 Observa las figuras y contesta.

- Si cada cuadrado mide 1 m^2, ¿cuántos metros cuadrados medirá la quinta figura? ¿Y la sexta?

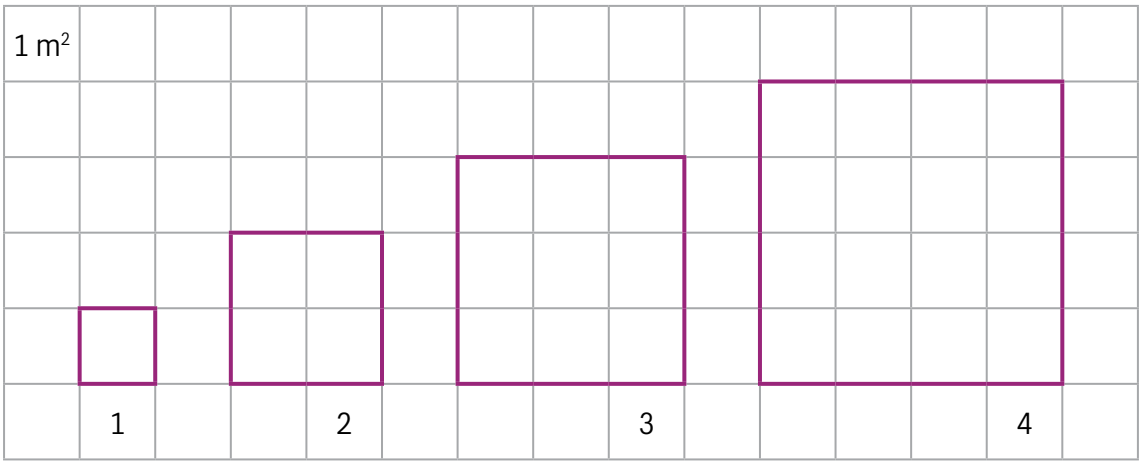

- La quinta figura medirá _____ y la siguiente, _____.